Inleiding

Waarom vormen zonnebloempitten 21 bochten in de ene richting en 34 in de andere?

En wat heeft een huisjesslak te maken met $\frac{1+\sqrt{5}}{2}$?

Zou je deze regelmatigheden kunnen verklaren met wiskunde?

Heeft wiskunde concrete toepassingen in de biologie?

Heb je je al eens afgevraagd hoe computerprogrammeurs de virtuele omgevingen creëren die gebruikt worden in computerspelletjes?

In dit hoofdstuk vind je op deze vragen een antwoord.

1. Rijen

1.1 De rij van Fibonacci

Stel dat je een babykoppel konijntjes bezit. Na één maand zijn ze volwassen en dus vruchtbaar. Na weer één maand krijgt het volwassen koppel zelf een babykoppel konijntjes.

We veronderstellen dat er geen konijntjes doodgaan en dat elk nieuw koppel na twee maanden weer een nieuw paar voortbrengt (zie volgende figuur).

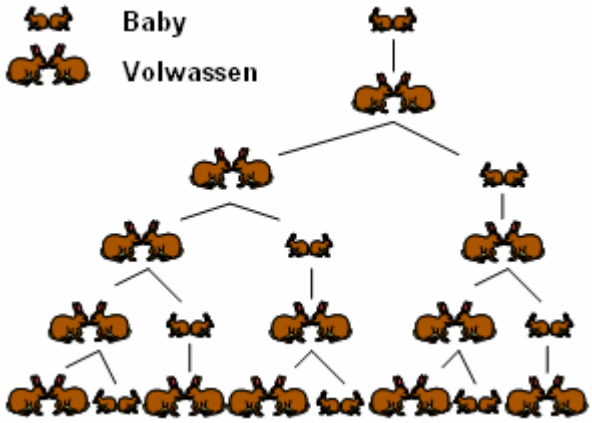

Beschouw in de volgende tabel de voortplanting van de konijnen.

Maand	Aantal volwassen paren	Aantal babyparen	Totaal aantal
1	0	1	1
2	1	0	1
3	1	1	2
4	2	1	3
5	3	2	5
6	5	3	8
7	8	5	13
8	13	8	21
9	21	13	34
10	34	21	55

Het totaal aantal konijnenparen vormt de rij van Fibonacci:

1, 1, 2, 3, 5, 8, 13, 21, 34, 55, …

Elke term is de som van de twee voorgaande termen. In symbolen: $u(n) = u(n-2) + u(n-1)$.

Dit noemt men het **recursieve voorschrift** van de rij. Bij het berekenen van nieuwe elementen, maak je gebruik van de kennis van de vorige elementen.

Je zou de elementen in de rij ook kunnen beschouwen als resultaten van een functie $u : \mathbb{N} \setminus \{0\} \to \mathbb{N}$.
Je kunt aantonen (zie bijlage A) dat voor de rij van Fibonacci het voorschrift gegeven wordt door :

$$u : \mathbb{N} \setminus \{0\} \to \mathbb{N} : n \mapsto \frac{\left(\frac{1+\sqrt{5}}{2}\right)^n - \left(\frac{1-\sqrt{5}}{2}\right)^n}{\sqrt{5}}$$

Ga dit na voor $u(1)$, $u(5)$ en $u(10)$. Een dergelijk voorschrift noemt men het **expliciete voorschrift** van de rij. Je maakt nu enkel gebruik van het volgnummer of index van het element.

De op het eerste zicht eigenaardige getallen uit de rij van Fibonacci blijken op heel wat plaatsen voor te komen in de natuur.

- **Zonnebloemen**
  Het hart van een zonnebloem vertoont spiralen die in tegengestelde richting lopen. Het aantal spiralen in wijzerzin en in tegenwijzerzin zijn meestal twee opeenvolgende Fibonacci-getallen. Zonnebloemen van gemiddelde grootte hebben meestal 34 en 5 5 spiralen. De geoloog T. O'Connell en zijn vrouw hebben in 1951 een reuzenzonnebloem gevonden met 144 en 233 spiralen.

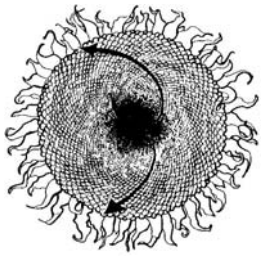

- **Ananassen**
  Als je de verschillende spiralen bij een ananas telt, bekom je getallen uit de rij van Fibonacci.



8 **13** **21**

Niet alleen in de natuur komen de getallen van Fibonacci verrassend veel voor. Twee voorbeelden :

- **Muziek**
  De zwarte toetsen uit de toonladder vormen de 5-tonige schaal die later uitgebreid werd met de witte toetsen (de 8-tonige schaal). Samen vormen ze de 13-delige schaal. De vijfdelige schaal is bovendien gegroepeerd in 2 en 3.

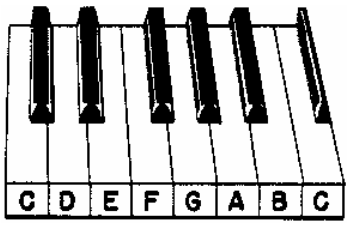

- **Poëzie**
  Een limerick is opgebouwd uit 5 lijnen met een totaal aantal van 13 versmaten of maatslagen, gegroepeerd per 2 of 3

De vrouw van een deken in Laken	3 maten
Lag 's nachts diepe zuchten te slaken,	3 maten
Zij kreunde zacht : 'O !	2 maten
Het kriebelt mij zo :	2 maten
Wel een deken in bed, maar geen laken.'	3 maten
(*Alex van der Heide*)	13 maten

1.2 Rekenkundige en meetkundige rijen

Voorbeeld 1

Beschouw de rij 5, 8, 11, 14, 17, 20, 23, ……

Het recursieve en het expliciete voorschrift zijn:

Recursief: $u(n) = u(n-1) + 3$

Expliciet: $u(n) = u(1) + 3(n-1)$

Een rij waarbij elke term met eenzelfde getal verschilt van de vorige noemt men een **rekenkundige rij**. Het verschil, v, tussen twee opeenvolgende termen is steeds gelijk.

Voorbeeld 2

Beschouw de rij 6, 18, 54, 162, 486, 1458, ……

Het recursieve en het expliciete voorschrift zijn:

Recursief: $u(n) = 3 \cdot u(n-1)$

Expliciet: $u(n) = u(1) \cdot 3^{n-1}$

Een rij waarbij elke term met eenzelfde factor verschilt van de vorige noemt men een **meetkundige rij**. De verhouding, r, van twee opeenvolgende termen is dus steeds gelijk.

Definities

Een **reële rij** u is een afbeelding van $\mathbb{N} \setminus \{0\}$ in $\mathbb{R}$.

De **algemene term** van de rij is het beeld $u(n)$ van n door u. We noteren $u(n)$ door u_n.

Een **rekenkundige rij** met beginterm u_1 en verschil v is de rij met algemene term

$u(n) = u_n = u_1 + (n-1)v$ met u_1 en v reële getallen.

Een **meetkundige rij** met beginterm u_1 en verhouding q is de rij met algemene term

$u(n) = u_n = u_1 q^{n-1}$ met u_1 en q reële getallen

Merk op dat voor zowel rekenkundige als meetkundige rijen ook recursieve voorschriften gegeven kunnen worden.

Voorbeeld 3

Beschouw de rij 1, 3, 7, 15, 31, ……

Het recursieve en expliciete voorschrift zijn:

Recursief: $u_n = 2 \cdot u_{n-1} + 1$

Expliciet: $u_n = 2^n - 1$

Het recursieve voorschrift van deze rij kan algemeen geformuleerd worden als volgt:

$\forall n > 1 : u_n = a\, u_{n-1} + b \quad (a, b, u_1 \in \mathbb{R})$ met beginterm u_1.

Dit resulteert in een meetkundige rij als $a \neq 1$ en $b = 0$ en een rekenkundige rij als $a = 1$ en $b \neq 0$.

Opmerkingen

- Men spreekt van een **strikt stijgende rij** als $\forall n \in \mathbb{N} \setminus \{0\} : u_{n+1} > u_n$
- Men spreekt van **een stijgende rij** als $\forall n \in \mathbb{N} \setminus \{0\} : u_{n+1} \geq u_n$.
  Elke strikt stijgende rij is stijgend.
- Men spreekt van een **strikt dalende rij** als $\forall n \in \mathbb{N} \setminus \{0\} : u_{n+1} < u_n$.
- Men spreekt van een **dalende rij** als $\forall n \in \mathbb{N} \setminus \{0\} : u_{n+1} \leq u_n$.
  Elke strikt dalende rij is dalend.
- Men spreekt van een **strikt monotone rij** als de rij strikt dalend of strikt stijgend is.

- Men spreekt van een **monotone rij** als de rij dalend of stijgend is.
  Elke strikt monotone rij is steeds monotoon.

- Men spreekt van een **constante rij** als: $\forall n \in IN \setminus \{0\} : u_{n+1} = u_n$.

- Men spreekt van een **naar boven begrensde rij** als $\exists\, a \in \mathbb{R}, \forall n \in \mathbb{N} \setminus \{0\} : u_n \leq a$.
  In dit geval noemt men de rij gemajoreerd.

- Men spreekt van een **naar onder begrensde rij** als $\exists\, a \in \mathbb{R}, \forall n \in \mathbb{N} \setminus \{0\} : u_n \geq a$.
  In dit geval noemt men de rij geminoreerd.

- Men spreekt van een **begrensde rij** als de rij naar boven EN naar onder begrensd is.

1.3 Eigenschappen van rekenkundige en meetkundige rijen

1.3.1 Rekenkundige rijen

Beschouw de rekenkundige rij u = 5, 8, 11, 14, 17, 20, 23, 26, …, 3n + 2, …

Beschouw de onderstaande paren van sommen:

$$\begin{cases} u_2 + u_4 = 22 \\ u_1 + u_5 = 22 \end{cases} \qquad \begin{cases} u_3 + u_4 = 25 \\ u_5 + u_2 = 25 \end{cases} \qquad \begin{cases} u_3 + u_5 = 28 \\ u_2 + u_6 = 28 \end{cases}$$

Dit geeft de volgende tabel:

n	$u_1 + ... + u_n$	$u_1 + u_n$
1	5	10
2	13	13
3	24	16
4	38	19
5	55	22
6	75	25
7	98	28
8	124	31

Verwoord de hierboven gevonden relatie in de vorm van een algemene eigenschap.

EIGENSCHAP
Voor een rekenkundige rij u geldt:

(i) $\forall k, l, r, s \in \mathbb{N} \setminus \{0\} : k + l = r + s \Rightarrow u_k + u_l = u_r + u_s$

(ii) $\forall n \in \mathbb{N} \setminus \{0\} : \sum_{i=1}^{n} u_i = u_1 + ... + u_n = \frac{n}{2}(u_1 + u_n)$

BEWIJS
Zij u een rekenkundige rij met verschil v en k, l, r, s zoals in het gegeven.

Om te bewijzen dat $u_k + u_l = u_r + u_s$ schrijf u_k, u_l, u_r en u_s i.f.v. u_1 en v.

$$\left.\begin{array}{l} u_k = u_1 + (k-1).v \\ u_l = u_1 + (l-1).v \end{array}\right\} \Rightarrow u_k + u_l = 2u_1 + (k+l-2).v$$

en

$$\left.\begin{array}{l} u_r = u_1 + (r-1).v \\ u_s = u_1 + (s-1).v \end{array}\right\} \Rightarrow u_r + u_s = 2u_1 + (r+s-2).v$$

Hieruit volgt dat $u_k + u_l = u_r + u_s$.

Zij $n \in \mathbb{N} \setminus \{0\}$ en stel $S_n = u_1 + u_2 + u_3 + ... + u_n$. We bepalen de som van S_n met zichzelf op de volgende manier:

$$\underbrace{\begin{array}{lllllllllll} S_n & = & u_1 & + & u_2 & + & u_3 & + & ... & + & u_n \\ S_n & = & u_n & + & u_{n-1} & + & u_{n-2} & + & ... & + & u_1 \end{array}}$$

$$\Downarrow$$

$$2S_n = \underbrace{(u_1 + u_n) + (u_1 + u_n) + (u_1 + u_n) + ... + (u_1 + u_n)}_{n \text{ termen}}$$

Pas op $2S_n$ eigenschap (i) toe om aan te tonen dat $S_n = \frac{n}{2}(u_1 + u_n)$.

1.3.2 Meetkundige rijen

EIGENSCHAP 1
Voor een meetkundige rij u met een positieve verhouding geldt:

(i) $\forall k, l, r, s \in \mathbb{N} \setminus \{0\} : k + l = r + s \Rightarrow u_k \cdot u_l = u_r \cdot u_s$

(ii) $\forall n \in \mathbb{N} \setminus \{0\} : \prod_{i=1}^{n} u_i = u_1 \cdot ... \cdot u_n = \sqrt{(u_1 \cdot u_n)^n}$

Het bewijs van eigenschap 1 verloopt analoog als het bewijs van de gelijkaardige eigenschap voor rekenkundige rijen. Probeer het bewijs te formuleren !

Opmerking
Formuleer een eigenschap voor het product van de eerste n termen van een meetkundige rij met een negatieve verhouding. Maak een onderscheid tussen n even en n oneven.

EIGENSCHAP 2
Voor een meetkundige rij met verhouding q geldt:

(i) $u_1 + ... + u_n = n \cdot u_1$ als $q = 1$

(ii) $u_1 + ... + u_n = u_1 \cdot \dfrac{1-q^n}{1-q}$ als $q \neq 1$

BEWIJS
Het eerste geval is overduidelijk daar voor $q = 1$ alle termen gelijk zijn aan u_1.

Veronderstel dan dat $q \neq 1$. In dit geval geldt :

$$u_1 + ... + u_n = u_1 + u_1 \cdot q + u_1 \cdot q^2 + u_1 \cdot q^3 + ... + u_1 \cdot q^{n-1} = u_1 \cdot (1 + q + q^2 + q^3 + ... + q^{n-1}).$$

Uit $1 - q^n = (1-q) \cdot (1 + q + q^2 + q^3 + ... + q^{n-1})$ volgt het te bewijzen.

Opmerking
Voor $-1 < q < 1$ wordt q^n praktisch nul voor n voldoende groot.

Hieruit volgt voor $u_1 + ... + u_n = u_1 \cdot \dfrac{1-q^n}{1-q} = \dfrac{u_1}{1-q} - \dfrac{u_1 \cdot q^n}{1-q}$ en voor n voldoende groot dat $\dfrac{u_1 \cdot q^n}{1-q}$ verwaarloosbaar is t.o.v. $\dfrac{u_1}{1-q}$. Voor n voldoende groot geldt: $u_1 + ... + u_n \approx \dfrac{u_1}{1-q}$.

1.4 Uitgewerkte voorbeelden

Rijen worden o.a. gebruikt om :

- dynamische processen te beschrijven (denk bijvoorbeeld aan het radioactief verval van een stof, de voortplanting van een bepaalde diersoort, …),
- getallen te benaderen (dankzij het gebruik van rijen kunnen vierkantswortels met een rekentoestel of computer snel berekend worden),
- bij functies te onderzoeken wat er gebeurt als x zeer grote of zeer kleine waarden aanneemt.

Voorbeeld 1 - Intrest

Wanneer men bij een bank een geldbedrag op een spaarrekening plaatst, krijgt men daar een vergoeding voor in de vorm van intrest. Stel dat we een kapitaal van € 1000 op een spaarrekening zetten gedurende een aantal jaren tegen een intrestvoet van 5%.

Bij enkelvoudige intrest krijgt men per jaar een vergoeding van € 50. Het kapitaal groeit dan jaarlijks aan volgens een rekenkundige rij. Stel $u_n =$ het kapitaal na n jaren in het geval van enkelvoudige intrest.

In werkelijkheid past men echter samengestelde intrest toe. Dit wil zeggen dat men in de loop van een volgend jaar niet alleen intrest krijgt op het oorspronkelijk kapitaal maar ook op de intrest die men de vorige jaren heeft ontvangen en die men op de spaarrekening laat staan. Stel $v_n =$ het kapitaal na n jaren in het geval van samengestelde intrest.

We maken een tabel met de aangroei van het beginkapitaal $u_0 = v_0 =$ € 1000.

aantal jaren	u_n	v_n
0	1000	1000
1	1050	1000 . 1,05 = 1050
2	1100	1050 . 1,05 = 1000 . $(1{,}05)^2 \approx$ 1103
3	1150	1158 . 1,05 = 1000 . $(1{,}05)^3 \approx$ 1158
4	1200	1216 . 1,05 = 1000 . $(1{,}05)^4 \approx$ 1216
⋮	⋮	⋮
n	1000 + 50 n	1000 $(1{,}05)^n$

Bij samengestelde intrest groeit het kapitaal aan volgens een meetkundige rij en dit is voor de spaarder gunstiger.

De algemene formule voor de jaarlijkse samengestelde intrest is $K_n = K_0.(1+i)^n = K_0.q^n$, waarbij K_0 het beginkapitaal, K_n het kapitaal na n jaren, i de intrestvoet (voor 5% is i = 0,05) en $q = 1 + i = 1.05$ de groeifactor per jaar is.

De maandelijkse groeifactor is $q^{\frac{1}{12}}$ en de dagelijkse groeifactor $q^{\frac{1}{365}}$. Met n het aantal dagen bekomen we de formule $K_n = K_0 \cdot q^{\frac{n}{365}} = K_0(1+i)^{\frac{n}{365}}$.

Tegenwoordig passen de meeste banken een dagelijkse intrest toe volgens de formule

$$K_n = K_0\left(1+\frac{i}{360}\right)^{360\cdot n}.$$

In de volgende tabel zie je de verschillende resultaten (afgerond) voor ons voorbeeld.

aantal jaren	jaarlijks	maandelijks	dagelijks
0	1000	1000	1000
1	1050	1050	1050
2	1103	1103	1103
3	1158	1158	1158
5	1276	1276	1276

We kunnen ons de vraag stellen na hoeveel jaar het startkapitaal verdubbeld is.

We vergelijken de enkelvoudige en samengestelde intrest als volgt:

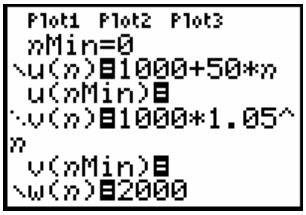

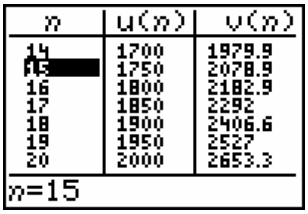

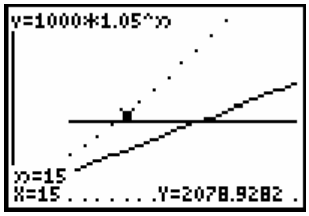

Uit de bovenstaande schermafdrukken kan je concluderen dat na 15 jaar het kapitaal zeker verdubbeld is bij samengestelde intrest.

We kunnen dit jaartal ook berekenen door gebruik te maken van de logaritme.

Stel dat het kapitaal verdubbeld is na x jaar. Dan geldt:

$$2v_0 = 1,05^x v_0 \Leftrightarrow 2 = 1,05^x \Leftrightarrow \log 2 = \log(1,05^x) \Leftrightarrow \log 2 = x\ \log(1,05) \Leftrightarrow x = \frac{\log 2}{\log(1,05)} \approx 14,2\,.$$

Voorbeeld 2

Een bediende in een bedrijf krijgt een beginsalaris van € 2000 per maand en een jaarlijkse opslag van € 200. Zijn loon groeit aan volgens een rekenkundige rij.

Een tweede bediende krijgt hetzelfde beginsalaris maar kiest, tot verbazing van de bedrijfsdirecteur, voor een halfjaarlijkse opslag van slechts € 50.

jaar	eerste	tweede
1	24000	12000+12050
2	24200	12100+12150
3	24400	12200+12250

Welke loonsverhoging verkies jij ?

Voorbeeld 3 - De driehoek van Sierpinski

We starten met een gelijkzijdige driehoek.

We transformeren de driehoek tot een nieuwe figuur door de middens van elke zijde met elkaar te verbinden. Je bekomt in de oorspronkelijke driehoek drie nieuwe driehoeken zoals hieronder aangegeven. Elk van die driehoeken kun je op dezelfde wijze transformeren en zo ga je maar door …



Na een vijftal stappen verandert het uitzicht van de bekomen driehoek nog nauwelijks. Een nieuwe transformatie levert eenzelfde beeld op. De figuur die je uiteindelijk bekomt, noemt men de driehoek van Sierpinski. Het is een typevoorbeeld van fractalen, meetkundige objecten die een sterke zelfgelijkvormigheid vertonen. Het zijn limietobjecten van een iteratieproces.

Iedere stap bij de constructie van de driehoek van Sierpinski is te beschouwen als de unie van de beelden van de vorige figuur onder drie affiene transformaties in het vlak. In dit geval zijn de transformaties telkens een samenstelling van een verschuiving en een homothetie met schaalfactor 0.5.

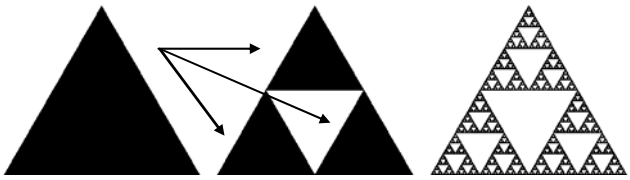

Aantal transformaties	Aantal driehoeken
0	1
1	3
2	3^2
3	3^3
4	3^4
5	3^5
⋮	
10	3^{10}

Voorbeeld 4 - DIN-papierformaten

Volgens het DIN (Deutsches Institut für Normung) moeten de afmetingen voor papierformaten voldoen aan de volgende voorwaarden.

Het grootste formaat A_0 heeft een oppervlakte van 1 m².

Als een blad van het formaat A_n in twee wordt geplooid, bekomt men een blad van het formaat A_{n+1}.

Alle formaten zijn gelijkvormig zodat men tijdens het kopiëren kan vergroten of verkleinen naar een ander DIN-formaat.

We bepalen de afmetingen van de formaten A_0 tot A_5.

We stellen de volgende vier betrekkingen op tussen de *h*oogten en *b*reedten h_0, b_0, h_1, b_1 van de formaten A_0 en A_1: $h_0 \cdot b_0 = 1, \quad h_1 = b_0, \quad b_1 = \frac{h_0}{2}$ en $\frac{h_0}{b_0} = \frac{h_1}{b_1}$.

Door in de vierde betrekking b_0, h_1 en b_1 te substitueren in functie van h_0, krijgen we $h_0^{\,4} = 2$, waaruit de volgende afmetingen volgen :

	A_0	A_1	A_2	A_3	A_4	A_5
hoogte (mm)	1189	841	594	420	297	210
breedte (mm)	841	594	420	297	210	148

Op een kopieertoestel kan men een tekst van een A_4-formaat vergroten op een A_3-formaat door op de zoomtoets “141%” te drukken en verkleinen op een A_5-formaat door op de zoomtoets “71%” te drukken.

Verklaar!

Voorbeeld 5 - Frequentie van muzieknoten

Iedere geluidsgolf kan grafisch voorgesteld worden door een sinuscurve. De toonhoogte van een muzieknoot wordt bepaald door de frequentie, f, van de sinuscurve van de geluidsgolf die deze noot voortbrengt. Hoe groter de frequentie, hoe hoger de toonhoogte.

Twee noten die een octaaf verschillen - bijvoorbeeld een lage do en hoge do - klinken heel mooi samen. Dit komt omdat de frequentie van een hoge do precies dubbel zo groot is als de frequentie van een lage do. Dit geldt ook voor de andere gelijknamige muzieknoten.

Een volledig octaaf bestaat uit dertien noten, namelijk acht hele noten (de witte toetsen op een piano) en vijf halve noten (de zwarte toetsen op een piano: de kruisen en/of de mollen).

De frequentie van de opeenvolgende noten ("witte" en "zwarte") van een notenbalk vormen een meetkundige rij met als eigenschap dat de frequentie over een hele octaaf verdubbelt.
Omdat $f_{13} = f_1 \cdot q^{12} = 2 \cdot f_1$ geldt dat de reden van deze meetkundige rij gelijk is aan $\sqrt[12]{2}$.

Dit kun je zien aan de lengte van de pijpen van een kerkorgel. Bij een klassiek orgel worden de geluidsgolven voortgebracht door de blaaspijpen. Hoe langer de pijp, hoe groter de frequentie en hoe lager de toon. Als de pijpen opgesteld zijn van lage naar hoge tonen, zullen de opeenvolgende pijpen steeds korter worden met een factor $2^{1/12}$, zodat om de 12 pijpen de lengte wordt gehalveerd.

Ook bij een gitaar kun je deze meetkundige rij vaststellen. Hier wordt de toonhoogte bepaald door de lengte van de snaar. Hoe korter de snaar, hoe hoger de toon. De lengte van de snaar wordt bepaald door de vaste houder op de buik van de gitaar en het dwarsstaafje op de hals waarop de vinger van de speler geplaatst is. De lengte van de snaar van twee opeenvolgende noten neemt af met een factor $2^{1/12}$ en de lengte van de snaren van twee noten die een octaaf verschillen verandert met een factor 2.

Voorbeeld 6 - De Koch-kromme

A. *CONSTRUCTIE*

Figuren zoals de Koch-kromme (zie onderstaande figuur) bekom je door een aaneenschakeling van steeds dezelfde constructie. In het ideale geval zou die aaneenschakeling nooit eindigen. In elke tussenstap bekom je vaak een mooie figuur, met een hele fijne structuur afhankelijk van hoever je gevorderd bent in de opeenvolging van stappen.

Hieronder verduidelijken we de constructie van de Koch-kromme.

We starten met een lijnstuk, dat we de basis noemen.

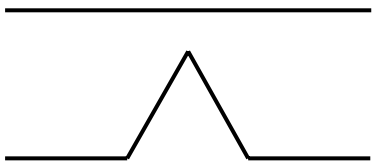

De basis wordt verdeeld in drie gelijke stukken en het middelste gedeelte vervangen we door een gelijkzijdige driehoek zonder basis.

Deze figuur noemt men de generator.

In een volgende stap passen we dezelfde constructie toe op ieder lijnstuk van de generator. Op ieder lijnstuk van deze nieuwe figuur passen we weer deze constructie toe, …… .

De limietfiguur die onstaat uit dit iteratieproces noemt men de Koch-kromme, die men een klassieker mag noemen in de wereld van fractalen.



Als we de basis van de Koch-kromme vervangen door een gelijkzijdige driehoek en de voorgaande constructie toepassen op iedere zijde geeft dit een Koch-eiland, ook de Koch-sneeuwvlok genoemd.



B. *DE KOCH-SNEEUWVLOK EN MEETKUNDIGE RIJEN*

De constructie van de sneeuwvlok van Koch ontstaat op een gelijkaardige manier als een meetkundige rij. In plaats van getallen te beschouwen die steeds met eenzelfde factor vermenigvuldigd worden, beschouw je hier driehoeken, die steeds met eenzelfde factor verkleind worden.

<u>Stap 0</u> Beschouw een gelijkzijdige driehoek T met zijde a en oppervlakte A_0.

<u>Stap 1</u> We verkleinen T met een factor $1/3$ ($1/3\,T$) en plakken drie van deze nieuwe driehoeken op elke zijde van de vorige. De sneeuwvlok die zo ontstaat heeft $3 \cdot 4$ zijden met elk een lengte van $\frac{a}{3}$.

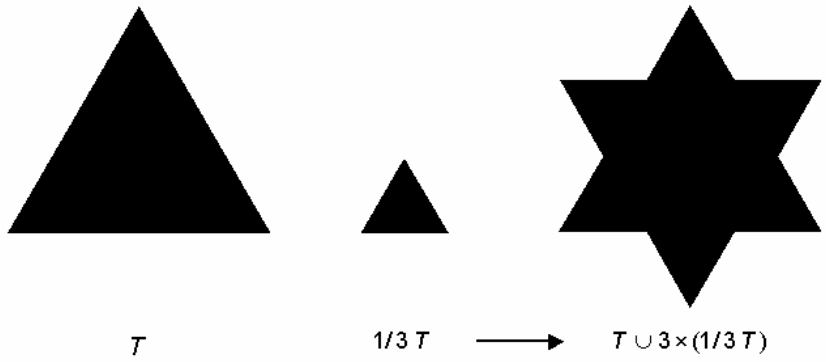

<u>Stap 2</u> We verkleinen $1/3\,T$ opnieuw met een factor $1/3$ ($1/9\,T$) en plakken $3 \cdot 4$ van deze nog kleinere driehoeken op elke zijde. De bekomen sneeuwvlok heeft nu $3 \cdot 4 \cdot 4 = 3 \cdot 4^2$ zijden met elk een lengte van $\frac{a}{9}$.

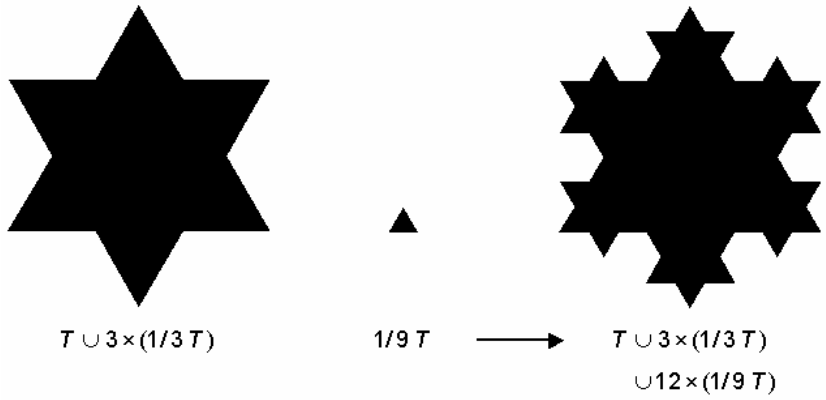

Stap 3

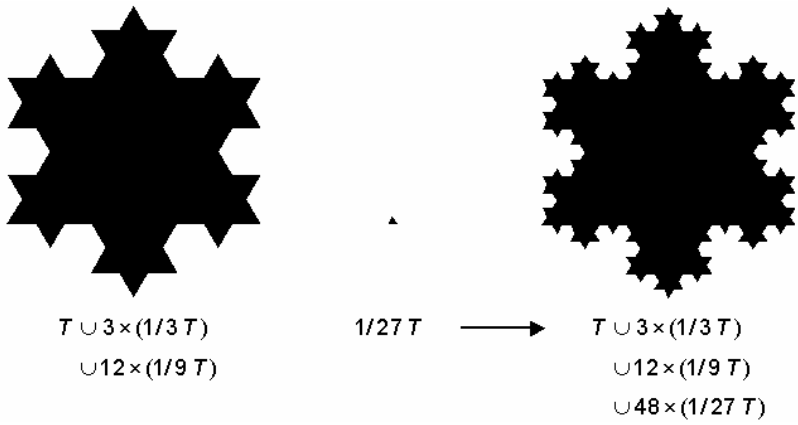

C. *DE OPPERVLAKTE VAN DE KOCH-SNEEUWVLOK*

Bij elke stap k voegen we n_k kleine driehoeken met zijde s_k toe. Voor deze rijen geldt:

stap	aantal toegevoegde driehoeken	lengte zijde toegevoegde driehoeken
1	3	$a/3$
2	$3 \cdot 4$	$a/9$
3	$3 \cdot 4 \cdot 4$	$a/27$
$\vdots$	$\vdots$	$\vdots$
k	$n_k = 3 \cdot 4^{k-1}$	$s_k = a \cdot (1/3)^k$

Voor de driehoek *T* geldt $A_0 = \frac{\sqrt{3}}{4} a^2$. Beschouw de rij A_n met A_n de oppervlakte van de figuur uit de n^{e} constructiestap van de Koch-sneeuwvlok. Dan geldt :

$$A_{k+1} = A_k + n_k \frac{\sqrt{3}}{4} s_k{}^2 = A_k + 3 \cdot 4^{k-1} \frac{\sqrt{3}}{4} \frac{1}{3^{2k}} a^2 = A_k + \frac{\sqrt{3}}{12} \cdot \left(\frac{4^{k-1}}{9^{k-1}} \right) a^2$$

$$\Downarrow$$

$$A_{k+1} = A_0 + \frac{\sqrt{3}}{12} \left(1 + \frac{4}{9} + \frac{4^2}{9^2} + \ldots + \frac{4^{k-1}}{9^{k-1}} \right) \cdot a^2$$

De uitdrukking tussen haken kun je opvatten als de som van elementen van een meetkundige rij met beginterm 1 en verhouding $\frac{4}{9}$. Uit eigenschap 2 van meetkundige rijen volgt dat deze som ongeveer gelijk is aan $\frac{1}{1 - \frac{4}{9}} = \frac{9}{5}$ voor k voldoende groot.

De oppervlakte van de Koch-sneeuwvlok is gelijk aan:

$$A = A_0 + \frac{\sqrt{3}}{12} \cdot \frac{9}{5} \cdot a^2 = \frac{\sqrt{3}}{4} \cdot a^2 + \frac{\sqrt{3}}{12} \cdot \frac{9}{5} \cdot a^2 = \frac{2}{5} \sqrt{3}\, a^2 = \frac{8}{5} A_0$$

Een oneindig proces resulteert blijkbaar in een nieuwe figuur met eindige oppervlakte.

Het aantal zijden van de figuur in de k^{e} constructiestap is gelijk aan $3 \cdot 4^k$.

De omtrek van de sneeuwvlok is na k constructiestappen gelijk is aan $3a \cdot \left(\frac{4}{3}\right)^k$.

Hoe meer constructiestappen je zet, hoe groter de omtrek. Het is zelfs zo dat de omtrek onbegrensd groter wordt. Het feit dat de omtrek van de Koch-sneeuwvlok oneindig is, maakt het resultaat van een eindige oppervlakte nog verrassender.

Men zou kunnen zeggen dat de Koch-sneeuwvlok een voorstelling geeft van de som van de elementen van een oneindige meetkundige rij.

D. *ITERATIE*

De Koch-sneeuwvlok is een typevoorbeeld van een iteratieproces dat aan de basis ligt van het creëren van virtuele omgevingen. In plaats van figuren te tonen aan de hand van bitmaps die veel bestandsruimte innemen, traag inlaadbaar en niet dynamisch, kunnen computerspecialisten dergelijke iteratieprocessen gebruiken om allerlei vormen te beschrijven. Met een relatief eenvoudig computeralgoritme kunnen dergelijke vormen snel zichtbaar gemaakt worden (zie bijlage C).

Voorbeeld 7 - Grote en kleine wijzers

Beschouw een analoog uurwerk met wijzers die met een continue snelheid ronddraaien.

- *Hoe dikwijls* zal de grote wijzer de kleine wijzer inhalen tussen 1.00 uur ('s nachts) en 13.00 uur ('s middags) ?

  Dit gebeurt elf maal, namelijk eenmaal tijdens ieder gans uur (bijvoorbeeld tussen 1.00 en 2.00 uur), behalve tussen 11.00 uur en 13.00 uur. In de loop van deze twee uur gebeurt dit maar éénmaal, namelijk om 12.00 uur. Dit is logisch want wanneer de grote wijzer twaalf maal is rondgedraaid, is de kleine wijzer eenmaal rond geweest.

- *Hoe laat* (= hoeveel minuten na het passeren van het ganse uur) zal de grote wijzer telkens de kleine voorbij steken ?

  Bijvoorbeeld tussen 7.00 en 8.00 uur gebeurt dit *later* (= meer minuten na het ganse uur) dan tussen 4.00 en 5.00 uur omdat de kleine wijzer "meer voorsprong" heeft op de grote wijzer die dus telkens van boven vertrekt.

Welke soort rij vormen deze tijdstippen ?

Als voorbeeld berekenen we exact het tijdstip waarop de grote wijzer de kleine wijzer inhaalt tussen 7.00 en 8.00 uur.

Voor de twee wijzers moeten we eenzelfde eenheid gebruiken. Als eenheid gebruiken we de minuut. Voor de grote wijzer is dit logisch. Maar als de kleine wijzer op 7 staat, heeft hij de waarde 35. Om 7.00 uur precies staat de grote wijzer op 0 en de kleine wijzer op 35. Als de grote wijzer zich verplaatst heeft naar 35, heeft de kleine wijzer zich ook een stukje verder verplaatst. Wanneer de grote wijzer dit stukje overbrugd heeft, is de kleine wijzer weer een nog kleiner stukje verder bewogen en moet de grote wijzer ook dit stukje weer overbruggen. Maar dan gaat de kleine wijzer weer een beetje verder, …….

Volgens de "paradox van Zeno" zal de grote wijzer de kleine wijzer nooit kunnen inhalen, maar het is duidelijk dat dit wel zal gebeuren (de tijd staat niet stil !). Maar wanneer juist ?

De snelheid van de kleine wijzer is twaalf keer kleiner dan die van de grote wijzer.

Wanneer de grote wijzer de eerste 35 minuten heeft overbrugd, heeft de kleine wijzer $\frac{35}{12}$ minuten afgelegd.

Als de grote wijzer deze afstand heeft ingehaald, heeft de kleine wijzer weer $\frac{35}{144}$ minuten afgelegd.

Deze “stukjes” vormen dus een meetkundige rij met 35 (t_1) als eerste term en $\frac{1}{12}$ (q) als verhouding.

Vermits de verhouding kleiner is dan 1, kunnen we stellen dat de som van deze (oneindig vele) stukjes eindig is en ongeveer gelijk aan:

$$\frac{t_1}{1-q} = \frac{35}{1-\frac{1}{12}} = \frac{35.12}{11} = \frac{420}{11} = 38{,}1818\ldots.$$

Het juiste tijdstip is dus 7 uur en 38,1818… minuten of 07:38:10,9090… uur.

De andere tijdstippen vind je in de volgende tabel:

tussen … en … uur	t_1	som ($q = \frac{1}{12}$)	tijdstip	exact
01.00 – 02.00	5	$\frac{60}{11}$	1 uur en 5,4545… min	01:05:27,2727…
02.00 – 03.00	10	$\frac{120}{11}$	2 uur en 10,9090… min	02:10:54,5454…
03.00 – 04.00	15	$\frac{180}{11}$	3 uur en 16,3636… min	03:16:21,8181…
04.00 – 05.00	20	$\frac{240}{11}$	4 uur en 21,8181… min	04:21:49,0909…
05.00 – 06.00	25	$\frac{300}{11}$	5 uur en 27,2727… min	05:27:16,3636…
06.00 – 07.00	30	$\frac{360}{11}$	6 uur en 32,7272… min	06:32:43,6363…
07.00 – 08.00	35	$\frac{420}{11}$	7 uur en 38,1818… min	07:38:10,9090…
08.00 – 09.00	40	$\frac{480}{11}$	8 uur en 43,6363… min	08:43:38,1818…
09.00 – 10.00	45	$\frac{540}{11}$	9 uur en 49,0909… min	09:49:05,4545…
10.00 – 11.00	50	$\frac{600}{11}$	10 uur en 54,5454… min	10:54:32,7272…
11.00 – 13.00	55	$\frac{660}{11} = 60$	11 uur en 60 min	12:00:00

Deze tijdstippen vormen een rekenkundige rij met als verschil 1 uur en $\frac{60}{11}$ minuten, of $\frac{720}{11}$ minuten.

Dit is natuurlijk het elfde deel van de verlopen 12 uur.

Voorbeeld 8 - Een botsende bal

Laat een balletje vallen van op een hoogte van één meter en meet hoe hoog het balletje weer opbotst. Doe dit verschillende keren en maak een zo nauwkeurig mogelijk gemiddelde.

Deze (gemiddelde) hoogte drukken we uit in een percentage ($p\%$) en noemen dit de "veerkracht" van het balletje (Als het balletje 70 cm opbotst, is de veerkracht 70%) .

We gaan nu berekenen na hoeveel seconden het balletje "doodvalt". Dit is wanneer het balletje niet meer botst, maar begint te rollen. Dit kan met een eenvoudige chronometer gecontroleerd worden. We gaan eerst na welke afstand het balletje heeft afgelegd.

Het valt eerst 1 m naar beneden. Daarna botst het weer op en valt weer over de hoogte die $p\%$ is van de vorige hoogte. Deze opeenvolgende hoogtes vormen een meetkundige rij met als eerste term 1 en verhouding $p\%$. De totale afgelegde weg is:

$$1+2\cdot(\frac{p}{100}+\left(\frac{p}{100}\right)^2+\left(\frac{p}{100}\right)^3+...)=1+2\cdot\frac{\frac{p}{100}}{1-\frac{p}{100}}=\frac{100+p}{100-p}.$$

Indien bijvoorbeeld de veerkracht 70% is, is de totale afgelegde weg $\frac{17}{3}$ meter.

Uit de formule voor de vrije val $h=\frac{g\cdot t^2}{2}$ volgt dat $t=\sqrt{\frac{2}{g}}\cdot\sqrt{h}$.

Op dezelfde manier berekenen we de totale tijd.

$$t=\sqrt{\frac{2}{g}}\cdot\left(1+2\cdot\left[\left(\frac{p}{100}\right)^{\frac{1}{2}}+\left(\frac{p}{100}\right)^{\frac{2}{2}}+\left(\frac{p}{100}\right)^{\frac{3}{2}}+...\right]\right)=\sqrt{\frac{2}{g}}\cdot\left(1+2\cdot\frac{\sqrt{\frac{p}{100}}}{1-\sqrt{\frac{p}{100}}}\right)$$

Voor p = 70 wordt dit dan bijvoorbeeld 5,077s .

Voorbeeld 9 - Sparen en lenen

Jaarlijks sparen van een vast bedrag

Stel dat je vanaf een leeftijd van 14 jaar ieder jaar € 50 spaart. Als je dit doet tot je 30 jaar bent, hoeveel heb je dan op je spaarboekje staan in de veronderstelling dat gedurende deze hele periode de intrestvoet 8% is ?

Je eerste betaling van € 50 heeft op het einde 16 jaar intrest opgebracht en heeft dan een waarde van € $50\cdot(1{,}08)^{16}$. Zo heeft je tweede betaling op het einde de waarde van € $50\cdot(1{,}08)^{15}$. De laatste betaling van € 50 doe je als je 29 bent en heeft een jaar later een waarde van € 50·1,08.

Het totale kapitaal is : $50\cdot\left[(1,08)+(1,08)^2+(1,08)^3+...+(1,08)^{15}+(1,08)^{16)}\right]=50\cdot\sum_{t=1}^{16}(1,08)^t$.

Deze som kan berekend worden als de som van de termen van de meetkundige rij met $u_1=q=1,08$ en $n=16$.

Deze som is gelijk aan $50\cdot1,08\cdot\frac{1-(1,08)^{16}}{1-(1,08)}=50\cdot32,7502=1637,51$ euro.

Het gespaarde bedrag van € 800 (16 maal € 50) is meer dan verdubbeld.

De algemene formule voor een jaarlijks kapitaal k dat gedurende n jaren wordt gespaard tegen een intrestvoet van i (= 100.i %) is het eindkapitaal $K_n = k \cdot \sum_{t=1}^{n} (1+i)^t = k \cdot (1+i) \cdot \frac{(1+i)^n - 1}{i}$.

Lenen van een bedrag

Lenen is het omgekeerde van sparen. Je betaalt eveneens jaarlijks (of maandelijks) een vast bedrag. Bij sparen heb je het geld nodig op het einde van een bepaalde periode en bij een lening heb je het geld nodig in het begin van een bepaalde periode.

Eerst berekenen we het bedrag dat we zouden gespaard hebben met de jaarlijks gestorte afbetalingen. Daarna beschouwen we dit bedrag als een eindkapitaal waarvan we nu het beginkapitaal willen hebben.

Stel dat je een voorlopig onbekend bedrag B wil lenen. Om dit geleend bedrag terug te betalen, stort je vanaf volgend jaar - en dit gedurende 16 jaar - € 50.

Indien we dit geld zouden gespaard hebben, kunnen we na 16 jaar beschikken over een kapitaal van $50 \cdot \sum_{t=0}^{15} (1,08)^t = 1516,21$ euro. Let op de andere begin- en eindwaarde voor t ten opzichte van de formule bij het sparen. Dit komt omdat alle stortingen nu één jaar later gebeuren.

De algemene formule voor dit bedrag wordt met dezelfde notaties als hierboven is:

$$K_n = k \cdot \sum_{t=0}^{n-1} (1+i)^t = k \cdot \frac{(1+i)^n - 1}{i}.$$

Dit is het gespaarde eindbedrag K_{16} over 16 jaar. Het overeenkomstige beginbedrag $K_0 = B$ is het bedrag waarover we nu willen beschikken. Volgens de formule $K_n = K_0 \cdot (1+i)^n$ geldt $1516,21 = K_0.(1,08)^{16}$ waaruit volgt $B = K_0 = 442,57$ euro.

De algemene formule is $B = \frac{k \cdot \sum_{t=0}^{n-1} (1+i)^t}{(1+i)^n} = \frac{k}{i} \cdot \frac{(1+i)^n - 1}{(1+i)^n} = \frac{k}{i} \cdot (1 - \frac{1}{(1+i)^n})$ waarbij

B het geleend bedrag is,
k het bedrag is van de jaarlijkse afbetalingen,
i de intrestvoet is (100.i %),
n het aantal jaren is waarover de lening loopt.

1.5 Opdrachten

Opdracht 1 - Wereldbevolking

Als er 5 miljard mensen zijn op aarde en de groei bedraagt jaarlijks 1,6%. Kan je dan de bevolkingstoename voorspellen? Teken het verloop van deze rij met je grafische rekenmachine. Bepaal grafisch na hoeveel tijd de wereldbevolking groter is dan 6 miljard.

Opdracht 2 - Visbak

Veronderstel dat je een visbak hebt met 100 l kraantjeswater. Het water is niet heel zuiver. Men stelt de pollutie q = 0,001 (concentratie in kg/l). Wekelijks verdampt 2 l zuiver water. Daardoor neemt de concentratie van de verontreiniging toe. Om dat tegen te gaan neemt men vijf liter water uit het aquarium en voegt men weer 7 l kraantjeswater toe zodat de bak weer volledig vol is.

Beschrijf de evolutie van de hoeveelheid verontreiniging in de visbak aan de hand van rijen. Kun je m.a.w. zeggen hoeveel verontreinigde stof er nog aanwezig is in het water na n weken.

Opdracht 3 - Beheer van een woud

In een bos zijn de bomen geklasseerd in drie groepen:

A minder dan 10 jaar oud - $[0,10[$

B tussen de 10 en de 30 jaar - $[10,30]$

C ouder dan 30 jaar - $]30,+\infty[$

We nemen aan dat alleen oude bomen kapot gaan. In 2 jaar gaan 20% van de bomen van A naar B, 10% van B naar C en 50% van C gaat kapot. Een boom van A brengt gemiddeld 5,2 nieuwe bomen voort, een boom van B gemiddeld 15 en een boom van C gemiddeld 2.

Stel A_n, B_n, C_n de populaties van A, B en C en $A_{n+1}, B_{n+1}, C_{n+1}$ de populaties van 2 jaar nadien. Neem als beginpopulaties A_0 = 10000, B_0 = 20000 en C_0 = 2000. Beschrijf de evolutie van de populatie in dit bos. Maak gebruik van rijen van matrices.

Opdracht 4

Een vlieg legt een afstand van 1m af in verschillende stappen. In één stap legt ze telkens de halve weg af van wat nog overblijft. Noem u_n de afgelegde weg na n stappen. Kun je een voorschrift vinden voor u_n? Legt de vlieg ooit de volledige weg af.

Opdracht 5

Beschouw een woud met 4000 bomen. Van die bomen worden er jaarlijks 20% gekapt en verkocht. In de plaats daarvan worden er telkens 1000 nieuwe geplant. Hoeveel bomen staan er in het bos na n jaar?

Opdracht 6

Een blad papier met een dikte van 0,1 mm plooit men in twee. De dikte wordt dan 0,2 mm. Na nog een keer dubbel plooien wordt de dikte 0,4 mm, …… Wat wordt de dikte na 30 maal plooien? En na 50 maal?

Hoe dikwijls moet men het blad papier plooien om de afstand van de aarde tot de maan (385.000 km) te overbruggen?

Probeer een blad papier met A4-formaat een aantal keer plooien? Hoeveel maal lukt dit?

Stel dat een blad papier met een dikte van 0,1 mm een voldoende aantal keer kan geplooid worden. Wat moet dan de oppervlakte van het blad zijn opdat de oppervlakte na dertig keer plooien 1 cm² is?

Controleer of het volume van het ongeplooide blad papier en het volume van de stapel na 30 keer plooien gelijk zijn.

Opdracht 7 - Met alle Chinezen …..

Toen een rijke Chinese prins tegen het vallen van de avond vaststelde dat hij, ver van zijn kasteel, de terugweg niet meer vond, geraakte hij paniek. Gelukkig kwam hij twee arme landmannen tegen, die langs de rand van de weg zaten te schaken en die hem de juiste terugweg konden uitleggen.

Als beloning mochten zij aan de prins een rijkelijke vergoeding vragen. Tot grote verbazing van de prins, zeiden de twee mannen dat zij al gelukkig zouden zijn met "enkele" graankorrels. Zij vroegen één graankorrel op het eerste vakje van hun schaakbord, twee korrels op het tweede vakje, vier op het volgende, dan acht, enzoverder tot het laatste, vierenzestigste vakje.

De prins maakte zich de bedenking dat deze twee arme kerels wel met heel weinig tevreden waren en nodigde hen dan ook uit om 's anderendaags met paard en kar naar het paleis te komen om hun beloning af te halen. En 's avonds liet de prins de hoeveelheid graan door zijn graanmeester berekenen.

Hoeveel graankorrels liggen er op het vierenzestigste vakje? Hoeveel graankorrels liggen er op het hele schaakbord? Als één korrel een massa van 0,05 g heeft, wat is dan de totale massa?

Opdracht 8 - De Torens van Hanoi

Een "toren van Hanoi" bestaat uit een aantal schijven met verschillende diameter, die over een verticale staaf (A) geschoven worden, zodat de diameters van de schijven naar boven toe afnemen. Met behulp van een middenstaaf (B) moeten de schijven over een derde staaf (C) geschoven worden, zodanig dat bij elke beurt juist één schijf mag verplaatst worden en er nooit een grotere schijf op een kleinere schijf mag liggen.

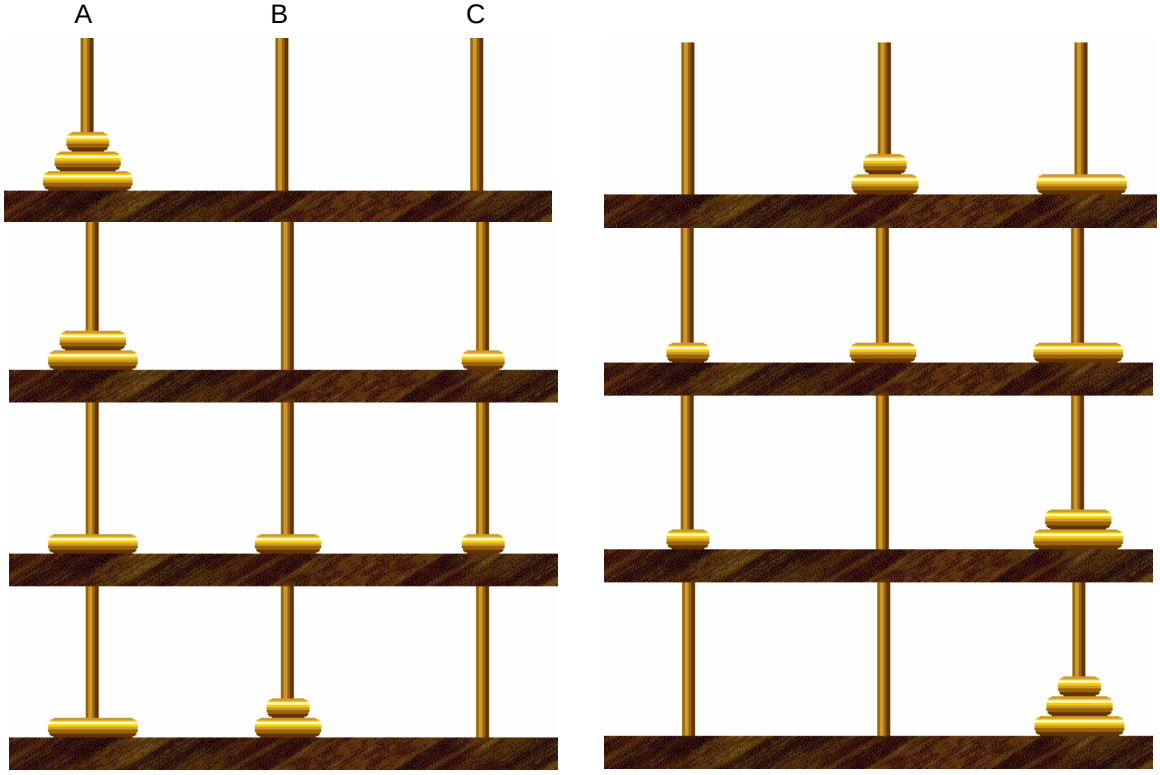

Hoeveel verplaatsingsbeurten zijn er nodig als de toren 3, 4, 5, 6… schijven bevat?

Geef een recursief en een expliciet voorschrift voor deze rij.

Volgens de legende bevindt zich in een tempel van Hanoi een toren met 64 schijven. Monniken zijn bezig met het verplaatsen van deze schijven. Iedere minuut, dag en nacht, wordt er één schijf verplaatst. Als de toren volledig verplaatst is, zal de wereld vergaan.

Wanneer zal dat zijn als ze op 28 oktober 1047 gestart zijn met deze opdracht?

Opdracht 9 - Sparen en lenen

Als we stellen dat de intrestvoet 6% is kunnen we ons de volgende vragen stellen.

Welk bedrag kunnen we lenen als we gedurende 20 jaar jaarlijks € 5000 terugbetalen?

Welk bedrag moeten we gedurende 10 jaar jaarlijks betalen om een bedrag van € 10000 te lenen?

We willen € 15000 lenen en hiervoor jaarlijks € 3000 betalen. Hoeveel jaren zal deze lening lopen?